Nordea

Lycka till!



Matteklurigar

För dig som är 8–12 år

Uppgift 1

Hur många kvadrater hittar du?



Uppgift 2

Hur mycket är dubbelt av hälften av 450?

÷ ×

Uppgift 3

Vilket värde har ?

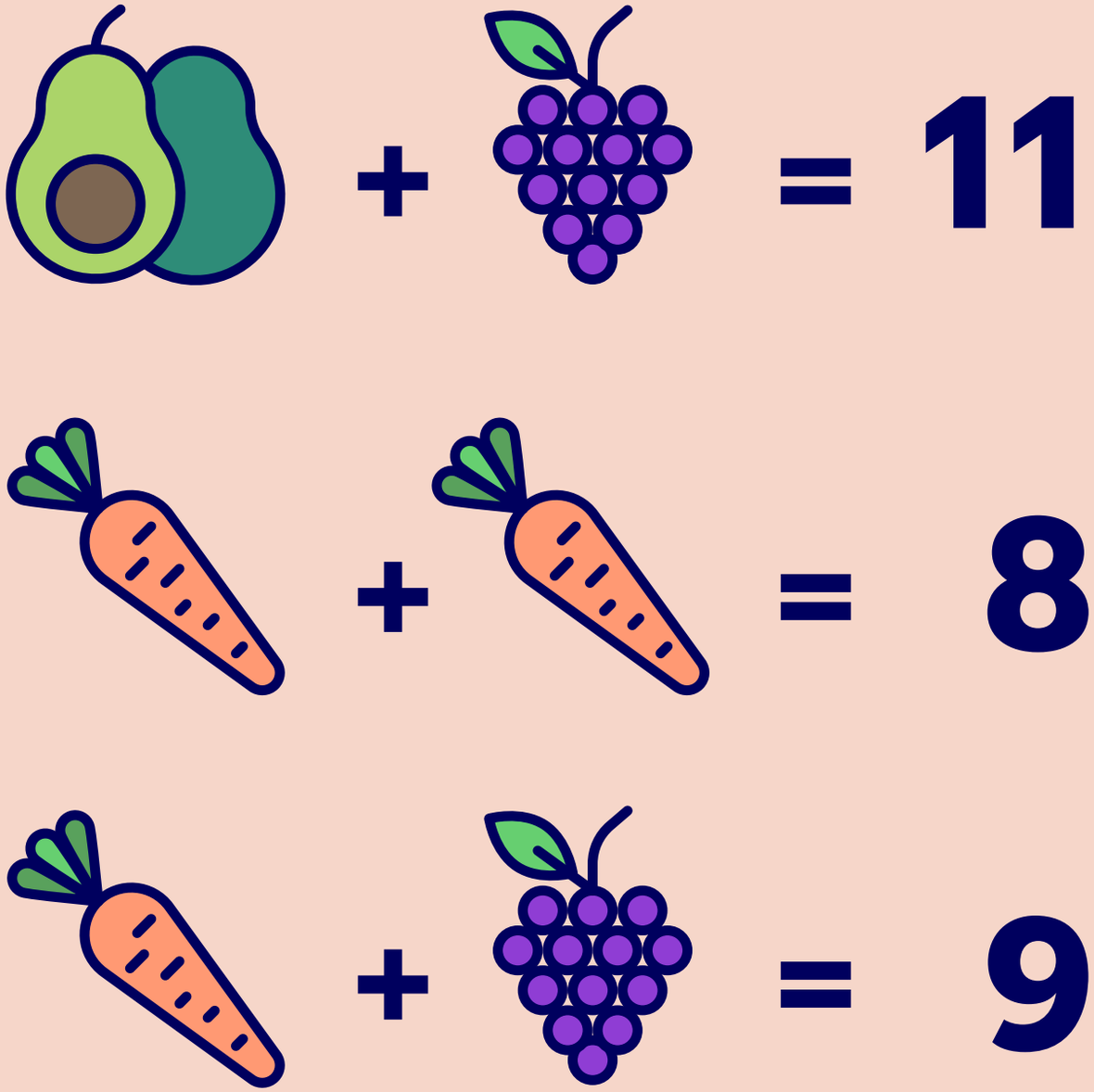

Uppgift 4

Vem har dyrbarast namn i familjen?

Räkna ut summan av varje förnamn genom att leta upp värdet för varje bokstav, addera talen och se vems namn som får högst summa.

A = 1	H = 8	O = 15	V/W = 22
B = 2	I = 9	P = 16	X = 23
C = 3	J = 10	Q = 17	Y = 24
D = 4	K = 11	R = 18	Z = 25
E = 5	L = 12	S = 19	Å = 26
F = 6	M = 13	T = 20	Ä = 27
G = 7	N = 14	U = 21	Ö = 28

Exempel:

A	L	M	A			
1	12	13	1			27
M	A	R	C	U	S	84
13	1	18	3	21	28	

Uppgift 5

Vilket värde har  **?**

+  = **15**

 +  = **20**

 + = **21**



Uppgift 6

Sudok-ish

Ta fram nio stenar (eller pappersbitar)
Skriv 1–9 på varje sten.
Placera ut dem tre och tre, på tre rader.

Hur ska stenarna placeras för att de tillsammans ska bli summan 15, både lodrätt, horisontellt och diagonalt?



Chokladbolls-ekonomi

De flesta vet att chokladbollar är smaskigt. Men visste du att de också är ett bra exempel på hur man kan tänka kring pengar? Sen är de ju alltid roliga att göra också. En perfekt syssla för sommarlovet, om du frågar oss på Nordea.

Gör dina egna chokladbollar

Det här behöver du för cirka 30 chokladbollar:

Ingredienser	Hur mycket	Kostar ungefär
Smör	100 gram	9,20 kronor
Socker	1 deciliter	0,80 kronor
Kakao	3 matskedar	2,60 kronor
Vaniljsocker	1 matsked	1 krona
Havregryn	3 deciliter havregryn	1,80 kronor
Kallt kaffe eller vatten	3 matskedar	Kaffe: 0,35 kronor Vatten: 0 kronor
Riven kokos, pärl-socker eller strössel att rulla i	Cirka 1 deciliter	Kokos: 4 kronor Strössel: 16 kronor Pärlsocker: 1,60 kronor

Gör så här:

Ta ut smöret ur kylen så att det blir rumsvarmt.

Blanda det rumsvarma smöret med sockret. Blanda sedan i resten av ingredienserna – kakao, vaniljsocker, havregryn och kallt kaffe (eller vatten om du inte gillar kaffe).

Rulla bollar och rulla sedan i riven kokos, strössel eller pärlsocker som du hällt ut på en tallrik.

PS – se till att ha lite hushållspapper i närheten. Det kan bli kladdigt!

Uppgift 7

Att klura på

Om du kan hålla dig från att äta upp dina smarriga chokladbollar, kan du istället sälja dem för att tjäna pengar. Om du säljer 30 stycken, hur mycket måste du ta betalt för varje chokladboll för att gå plus 100 kronor?

Skriv ditt svar här: _____ Kronor/styck.

Uppgift 8

Chokladbollar på café

Fundera på vad det kostar för dig och din familj att gå på café om alla äter varsin chokladboll.

Kanske ni dricker någonting till också.

- Vad tror du att kalaset kostar?
- Hur stor skillnad är det från att fika hemma?

Skriv ditt svar här: _____

_____

_____

FACIT

UPPGIFT 1: **40 stycken kvadrater**

UPPGIFT 2: **450**

UPPGIFT 3: **6**

UPPGIFT 5: **16**

UPPGIFT 6:



UPPGIFT 7:
Det beror på vad du väljer att rulla dem i. Om du väljer kokos och att ha kaffe i måste varje chokladboll kosta 4 kronor eftersom du måste räkna bort vad ingredienserna kostade innan du börjar gå plus. 100 + 19,75 ÷ 30 = 3,99 kronor.

UPPGIFT 8:
Kostnaden beror så klart på vad priset per chokladboll är på fiket och om ni köper något ytterligare, som en eller flera drickor. Det blir snabbt en hel del pengar när man fikar på stan och du kommer att märka hur mycket billigare det är att fika hemma. Men går ni till kaféet så kanske ni har fått en trevlig promenad "på köpet".